LA DIVISIONE SENZA RESTO

Raggruppa, calcola e completa.

Raggruppa per **4**.



- Mele in tutto: .....
- Mele in ogni gruppo: .....
- **Quanti gruppi?** .....
- **Quante mele restano fuori?** .....

..... : ..... = ... con **resto** .....

Raggruppa per **6**.



- Pennelli in tutto: .....
- Pennelli in ogni gruppo: .....
- **Quanti gruppi?** .....
- **Quanti pennelli restano fuori?** .....

..... : ..... = ... con **resto** .....

Raggruppa per **8**.

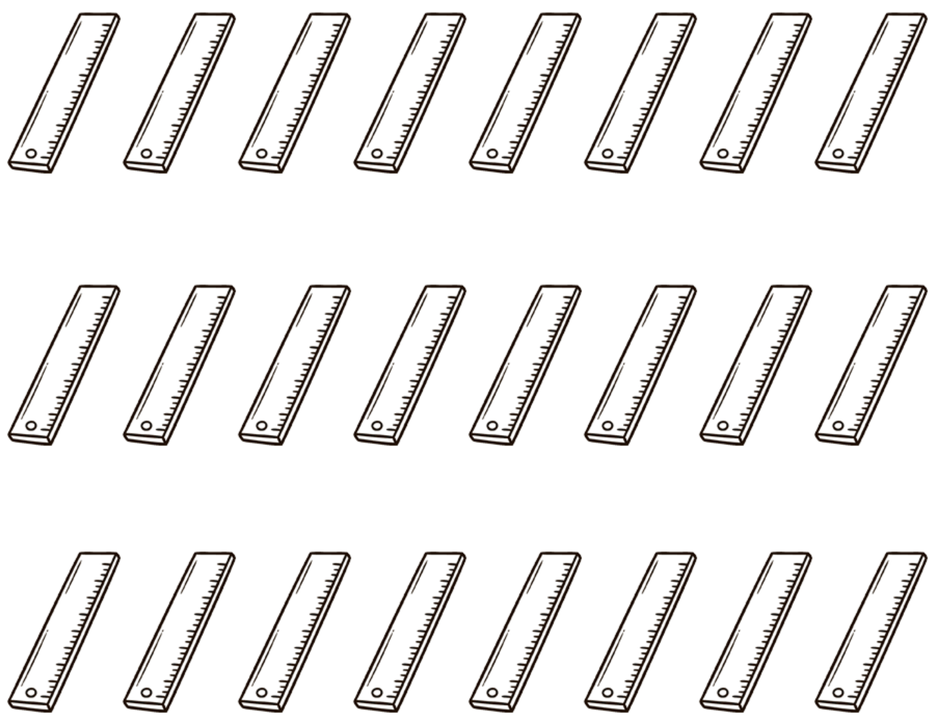

- Righelli in tutto: .....
- Righelli in ogni gruppo: .....
- **Quanti gruppi?** .....
- **Quanti righelli restano fuori?** .....

..... : ..... = ... con **resto** .....

©Pianetabambini.it

LA DIVISIONE CON IL RESTO

Raggruppa, calcola e completa.

Raggruppa per **4**.



- Ananas in tutto: .....
- Ananas in ogni gruppo: .....
- **Quanti gruppi?** .....
- **Quanti ananas restano fuori?** .....

..... : ..... = ... con **resto** .....

Raggruppa per **5**.

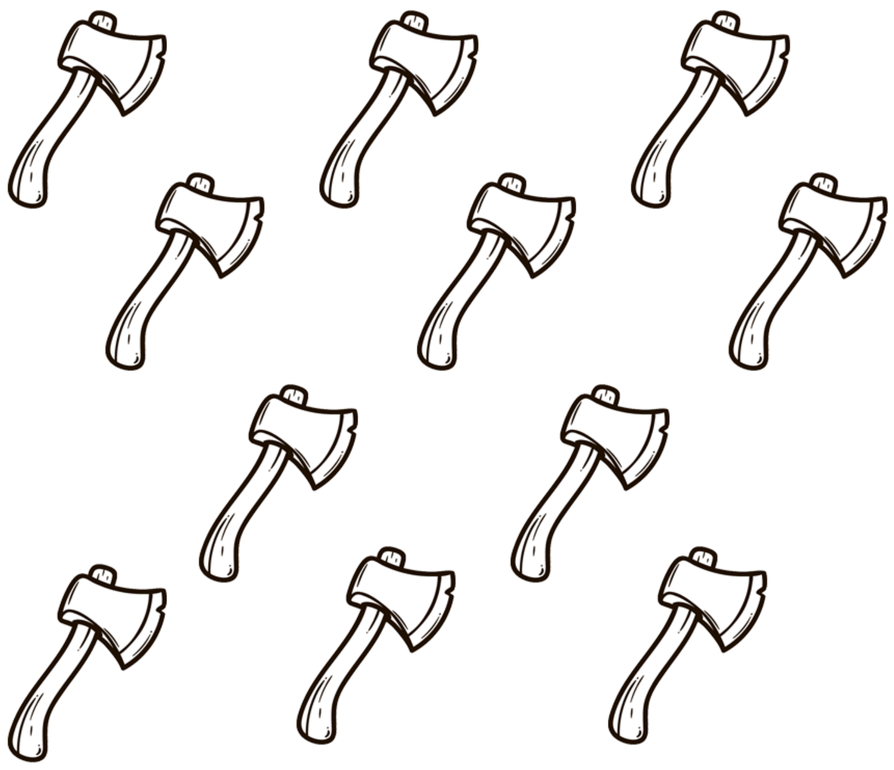

- Asce in tutto: .....
- Asce in ogni gruppo: .....
- **Quanti gruppi?** .....
- **Quante asce restano fuori?** .....

..... : ..... = ... con **resto** .....

Raggruppa per **6**.



- Torce in tutto: .....
- Torce in ogni gruppo: .....
- **Quanti gruppi?** .....
- **Quante torce restano fuori?** .....

..... : ..... = ... con **resto** .....

©Pianetabambini.it

LA DIVISIONE CON IL RESTO

Leggi la divisione, raggruppa e scrivi il risultato.



15 : 6 = ... con **resto** .....

28 : 8 = ... con **resto** .....



18 : 4 = ... con **resto** .....

30 : 9 = ... con **resto** .....

©Pianetabambini.it